Конструктор индивидуальных заданий по математике SCHOOL-PRO.RU

Комплект заданий по математике в этом файле был автоматически сгенерирован в Конструкторе.

В Конструкторе также можно генерировать карточки и комплекты КИМов ОГЭ, ЕГЭпроф, ЕГЭбаз, ВПР-5-6-7-8 пачками до 40 штук сразу за 2 минуты!

Конструктор позволяет круглый год задавать индивидуальные домашние задания по математике для учеников 5-8 классов, а также по темам ОГЭ и ЕГЭ. Также в Конструкторе есть генератор КИМов, который позволяет создавать экзаменационные КИМы «пачками» в один клик. Все задания и ответы к ним генерируются умными программами-скриптами автоматически, поэтому **задания и ответы будут только у Вас и нигде больше в Интернете!**

То есть, Вы можете самостоятельно генерировать файлы, похожие на этот, в Конструкторе – с уникальными заданиями и ответами, которые будут только у Вас и нигде больше!

Узнайте, как использовать Конструктор на полную мощность:

- Конструктор индивидуальных заданий
- Краткая видеоинструкция по Конструктору (2 минуты): смотреть
- Полная видео-и текстовая инструкция по Конструктору: смотреть (желательно за компьютером)
- Видеоинструкция (частично устаревшая): смотреть
- Краткая инструкция по Конструктору в картинках: смотреть
- Вступайте в нашу группу ВК: Конструктор индивидуальных заданий (группа ВК)
- По всем вопросам пишите автору и администратору Конструктора Максиму Семенихину (страничка ВК)

Вариант 2

© school-pro.ru - подготовка к ЕГЭ и ОГЭ по математике

1. У треугольника со сторонами 2 и 16 проведены высоты к этим сторонам. Высота, проведенная к первой стороне, равна 12. Чему равна высота, проведенная ко второй стороне?

2. В треугольнике одна из сторон равна 9, а опущенная на нее высота — 21. Найдите площадь треугольника.

3. Одна из сторон треугольника равна 44, другая равна 22, а синус угла между ними равен 0.5. Найдите площадь треугольника.

4. Найдите площадь треугольника, изображённого на рисунке.

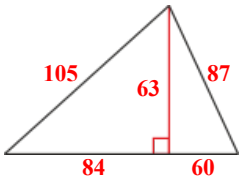

5. На стороне FA треугольника FMA отмечена точка K так, что $FK = 33$, $KA = 40$. Площадь треугольника FMA равна 292. Найдите площадь треугольника FMK.

Вариант 2

© school-pro.ru - подготовка к ЕГЭ и ОГЭ по математике

1. У треугольника со сторонами 2 и 16 проведены высоты к этим сторонам. Высота, проведенная к первой стороне, равна 12. Чему равна высота, проведенная ко второй стороне?

2. В треугольнике одна из сторон равна 9, а опущенная на нее высота — 21. Найдите площадь треугольника.

3. Одна из сторон треугольника равна 44, другая равна 22, а синус угла между ними равен 0.5. Найдите площадь треугольника.

4. Найдите площадь треугольника, изображённого на рисунке.

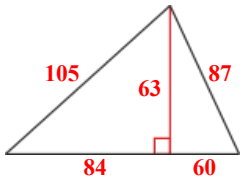

5. На стороне FA треугольника FMA отмечена точка K так, что $FK = 33$, $KA = 40$. Площадь треугольника FMA равна 292. Найдите площадь треугольника FMK.

Вариант 2

© school-pro.ru - подготовка к ЕГЭ и ОГЭ по математике

1. У треугольника со сторонами 2 и 16 проведены высоты к этим сторонам. Высота, проведенная к первой стороне, равна 12. Чему равна высота, проведенная ко второй стороне?

2. В треугольнике одна из сторон равна 9, а опущенная на нее высота — 21. Найдите площадь треугольника.

3. Одна из сторон треугольника равна 44, другая равна 22, а синус угла между ними равен 0.5. Найдите площадь треугольника.

4. Найдите площадь треугольника, изображённого на рисунке.

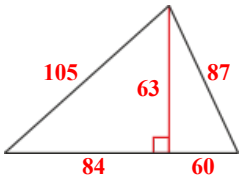

5. На стороне FA треугольника FMA отмечена точка K так, что $FK = 33$, $KA = 40$. Площадь треугольника FMA равна 292. Найдите площадь треугольника FMK.

Вариант 2

© school-pro.ru - подготовка к ЕГЭ и ОГЭ по математике

1. У треугольника со сторонами 2 и 16 проведены высоты к этим сторонам. Высота, проведенная к первой стороне, равна 12. Чему равна высота, проведенная ко второй стороне?

2. В треугольнике одна из сторон равна 9, а опущенная на нее высота — 21. Найдите площадь треугольника.

3. Одна из сторон треугольника равна 44, другая равна 22, а синус угла между ними равен 0.5. Найдите площадь треугольника.

4. Найдите площадь треугольника, изображённого на рисунке.

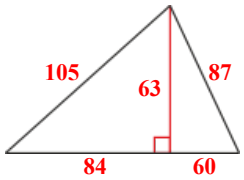

5. На стороне FA треугольника FMA отмечена точка K так, что $FK = 33$, $KA = 40$. Площадь треугольника FMA равна 292. Найдите площадь треугольника FMK.